KLASA 4

DZIAŁ III

DZIAŁANIA PISEMNE

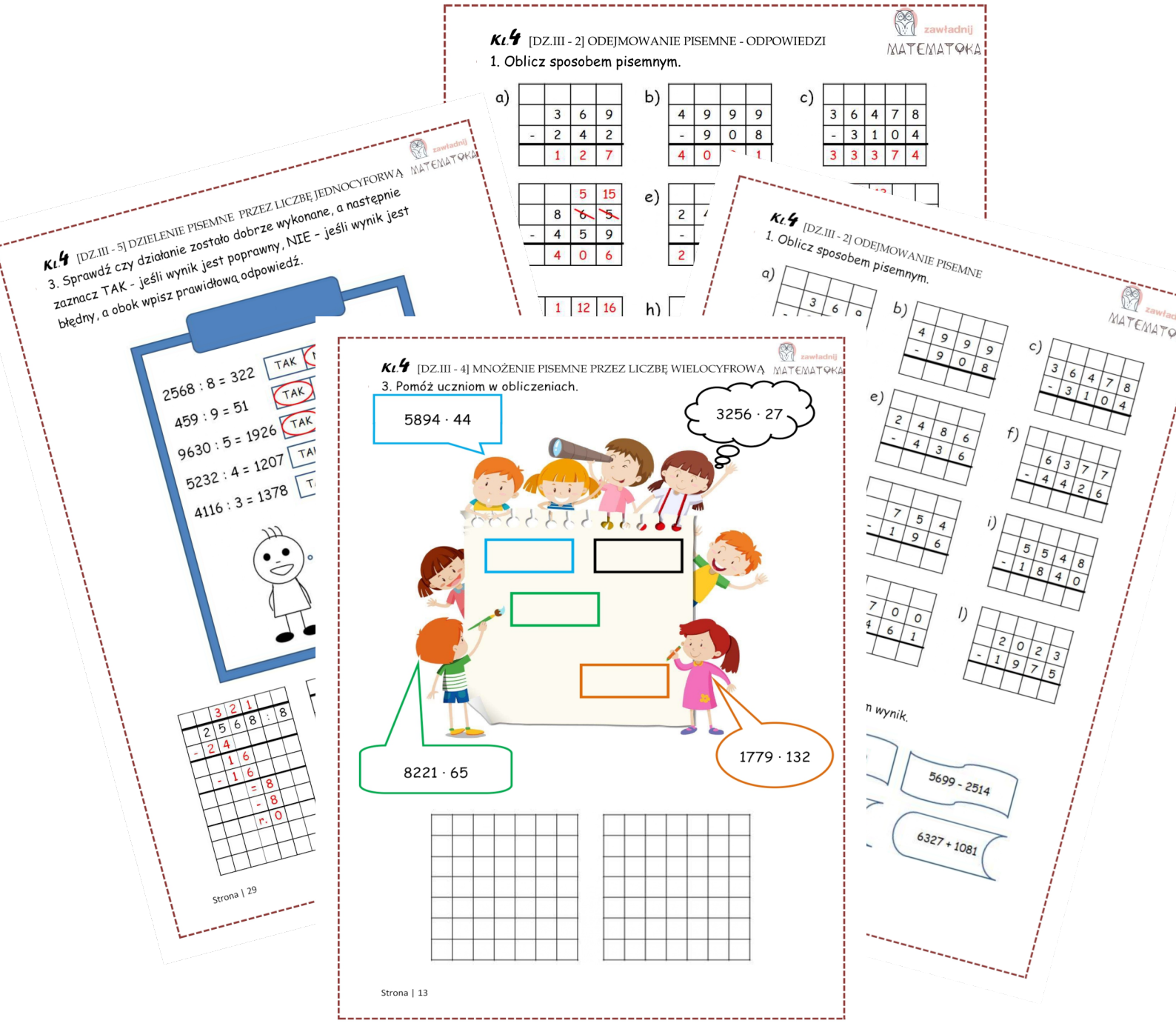

DZIAŁANIA PISEMNE.

Autor: Paulina Stanisławczyk
Tytuł: Działania pisemne.
Projekt okładki: Paulina Stanisławczyk

©Copyright by Paulina Stanisławczyk
Łódź 2023
Wszelkie prawa zastrzeżone. Kopiowanie w całości lub we fragmentach bez zgody wydawcy zabronione.

strona: **www.zawladnijmatematyka.pl**

Spis treści:

WSTĘP. 4
DODAWANIE PISEMNE 5
ODEJMOWANIE PISEMNE 7
MNOŻENIE PISEMNE PRZEZ LICZBĘ JEDNOCYFROWĄ 10
MNOŻENIE PISEMNE PRZEZ LICZBĘ WIELOCYFROWĄ 12
DZIELENIE PISEMNE PRZEZ LICZBĘ JEDNOCYFROWĄ 15
ODPOWIEDZI 18
BIBLIOGRAFIA 31

Wstęp

Karty pracy dla klasy 4 dział III: „Działania pisemne.” zawiera 5 kart pracy, które pozwalają utrwalić wiadomości i odkryć potencjał matematyczny.

W tym dziale znajdziesz następujące tematy:

1. Dodawanie pisemne.
2. Odejmowanie pisemne.
3. Mnożenie pisemne przez liczbę jednocyfrową.
4. Mnożenie pisemne przez liczbę wielocyfrową.
5. Dzielenie pisemne przez liczbę jednocyfrową.

Materiały przeznaczone są nie tylko dla uczniów, ale również dla nauczycieli, którzy chcieliby urozmaicić lekcje matematyki.

zawładnij MATEMATYKĄ

Kl.4 [DZ.III - 1] DODAWANIE PISEMNE

1. Oblicz sposobem pisemnym.

a)

	1	5	7
+		2	2

b)

	3	6	8
+	2	1	0

c)

5	1	2	9
+	2	5	0

d)

	5	7	6
+		3	8

e)

	3	2	8
+	5	6	2

f)

3	8	5	6
+	4	6	4

g)

	7	8	8
+	6	2	6

h)

3	5	9	9
+	8	0	7

i)

	5	6	4	2
+	9	9	9	9

j)

	3	8	8	9
		5	1	7
+			3	9

k)

	9	2	3
	2	2	7
+	8	0	1

l)

	7	8	2	0
		6	6	8
			9	1
+			1	4

2. Połącz działanie z jego wynikiem. Zapisz obliczenia.

326 + 145	5214 + 36	625 + 77	4125 + 1488
702	5250	5613	471

Kl.4 [DZ.III - 1] DODAWANIE PISEMNE

3. Wykonaj działania sposobem pisemnym.

a) 128 + 31	b) 507 + 321	c) 1257 + 742	d) 698 + 42
e) 741 + 158	f) 7856 + 254	g) 301 + 894	h) 2540 + 623
i) 9881 + 3665	j) 4032 + 784 + 26	k) 461 + 958 + 300	
l) 1256 + 6952 + 320 + 11			

a) b) c)

d) e) f)

g) h) i)

j) k) l)

4. Tata Karola miał w banku 7985 zł, na konto wpłynęła mu pensja z premią w wysokości 4522zł. Ile pieniędzy ma tata na koncie?

Czy podobała Ci się karta pracy? Zamaluj buźkę

zawładnij MATEMATYKĄ

Kl.4 [DZ.III - 2] ODEJMOWANIE PISEMNE

1. Oblicz sposobem pisemnym.

a)

	3	6	9
-	2	4	2

b)

4	9	9	9
-	9	0	8

c)

3	6	4	7	8
-	3	1	0	4

d)

	8	6	5
-	4	5	9

e)

2	4	8	6
-	4	3	6

f)

	6	3	7	7
-	4	4	2	6

g)

	2	3	6
	-	4	7

h)

	7	5	4
-	1	9	6

i)

	5	5	4	8
-	1	8	4	0

j)

	1	9	0	9
	-	3	5	7

k)

	7	0	0
-	4	6	1

l)

	2	0	2	3
-	1	9	7	5

2. Połącz działania, które mają taki sam wynik.

576 - 124

8407 - 999

5699 - 2514

1789 + 1396

217 + 235

6327 + 1081

zawładnij MATEMATYKĄ

3. Wykonaj działania sposobem pisemnym.

a) 317 - 15	b) 789 - 459	c) 2671 - 460	d) 918 - 47
e) 649 - 185	f) 7466 - 728	g) 733 - 281	h) 4536 - 403
i) 9840 - 3675	j) 4032 – 784	k) 461 - 253	l) 3700 - 1952

a) b) c)

d) e) f)

g) h) i)

j) k) l)

4. Wpisz w okienko odpowiednią liczbę. Zapisz obliczenia.

a) 1327 - ☐ = 803

b) ☐ - 348 = 2356

c) 8681 – 1546 = ☐

d) ☐ - 3578 = 5615

e) 633 – 140 = ☐

f) 5000 – ☐ = 1712

a) b) c)

d) e) f)

5. Z Łodzi do Rzymu jest 1695 km, a do Pragi jest bliżej o 1144 km bliżej. Oblicz odległość między Łodzią a Pragą. Wynik sprawdź za pomocą dodawania.

6. Tadeusz Kościuszko urodził się w 1746 roku, a zmarł w 1817 roku. Ile lat miał Tadeusz Kościuszko ? Wynik sprawdź za pomocą dodawania.

Czy podobała Ci się karta pracy? Zamaluj buźkę

Kl.4 [DZ.III - 3] MNOŻENIE PISEMNE PRZEZ LICZBĘ JEDNOCYFROWĄ

1. Oblicz sposobem pisemnym.

a)

		3	6	2
	·			2

b)

		1	2	7
	·			4

c)

		7	8	8
	·			5

d)

		4	5	7
	·			9

e)

		3	9	4
	·			8

f)

		2	8	8
	·			6

g)

	1	5	7	6
·				7

h)

	3	5	2	6
·				8

i)

	5	5	2	6
·				4

j)

	3	2	0	0
·		3		

k)

	9	7	0	0
·		6		

l)

	5	3	3	0
·			9	

2. Połącz działania z odpowiednim wynikiem.

1457 · 5

2384 · 3

1100 · 7

7152

7700

7285

3. Wpisz w puste pole liczbę 3 razy większą.

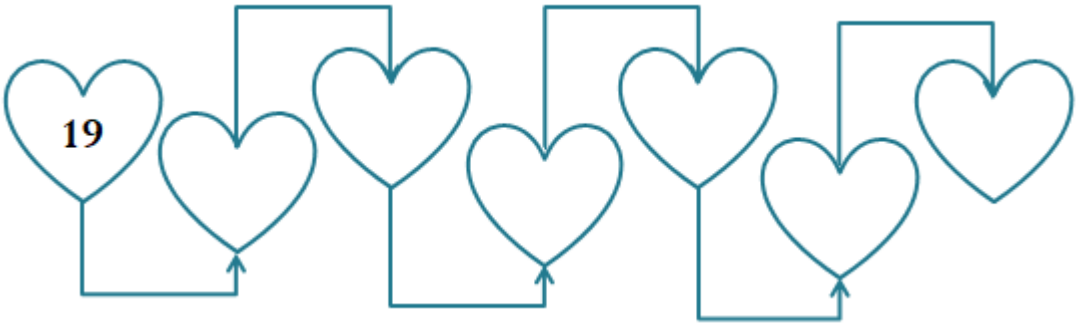

4. Bingo matematyczne kosztuje 59 zł. Ile dyrektor musi przeznaczyć na zakup 7 takich zestawów ?

5. Daniel z rodzicami i bratem wyjechał do Torunia. W restauracji zamówili obiad, składający się z dwóch dań. Zupę, która kosztowała 13 zł oraz drugie danie – 60 zł. Ile zapłacili w restauracji ?

Czy podobała Ci się karta pracy? Zamaluj buźkę

Kl.4 [DZ.III - 4] MNOŻENIE PISEMNE PRZEZ LICZBĘ WIELOCYFROWĄ

zawładnij MATEMATYKĄ

1. Oblicz sposobem pisemnym.

a)

			3	6	2
	·			1	2

b)

			2	5	1	7
		·			3	4

c)

			5	6	1	1
		·			7	1

d)

				8	5	4
		·		2	0	3

e)

				7	4	9	6
			·		4	2	8

f)

			1	7	8	8	2
		·			4	5	5

2. Wykonaj działania. Wynik wpisz w ramkę.

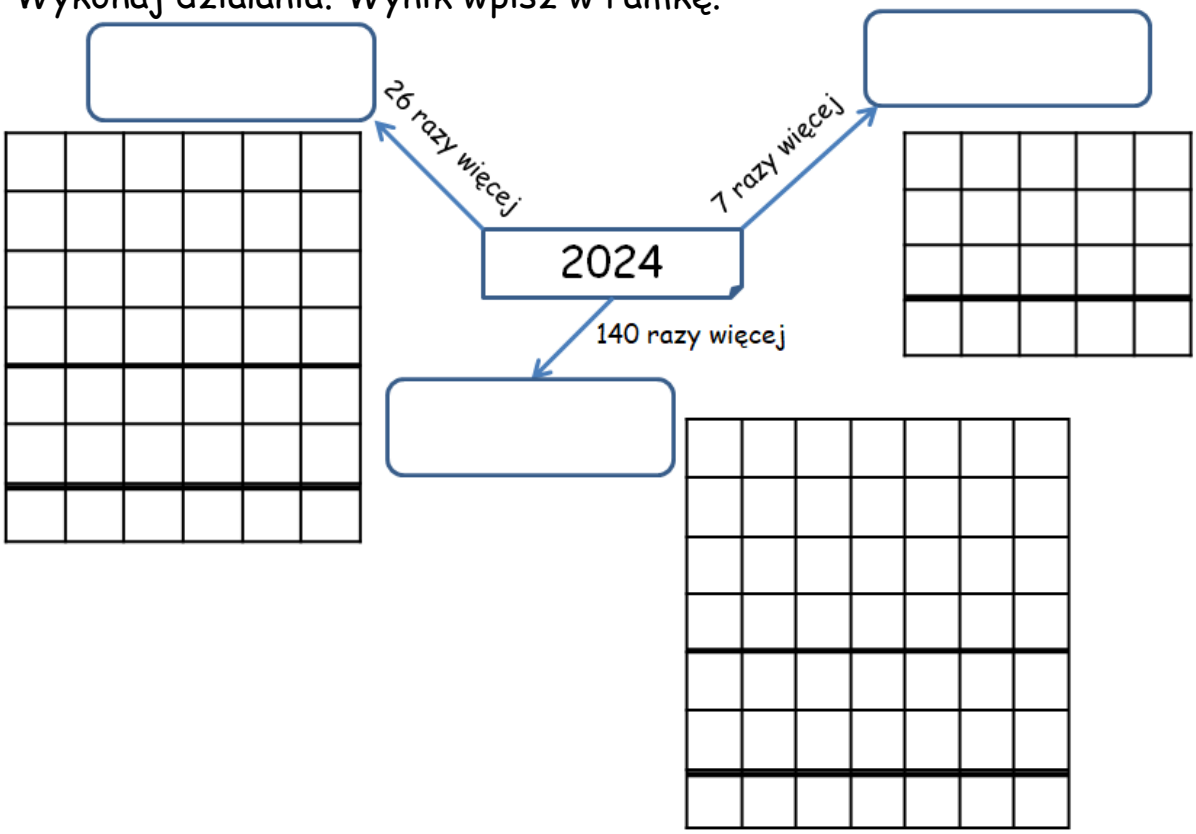

St

3. Pomóż uczniom w obliczeniach.

5894 · 44

3256 · 27



8221 · 65

1779 · 132





4. Bilet z Wrocławia do Dubaju kosztuje 1969 zł. Ile musi zebrać organizator wycieczki, jeśli chętnych jest 12 osób ? Organizatora koszt nie obejmuje.

5. Firma ,,ASUS" chce zakupić 35 laptopów po 2545 zł. Ile pieniędzy potrzebuje na ten cel ?

6. Ernest z rodzicami chce wyjechać od piątku do niedzieli do Zakopanego. Nocleg dla jednej osoby kosztuje 150 zł. Dodatkowo opłacili śniadanie, które kosztuje 75 zł za osobę. Ile zapłacą za pobyt? Zapisz działanie za pomocą jednego wyrażenia.

Czy podobała Ci się karta pracy? Zamaluj buźkę

Kl.4 [DZ.III - 5] DZIELENIE PISEMNE PRZEZ LICZBĘ JEDNOCYFORWĄ

1. Oblicz sposobem pisemnym i sprawdź za pomocą mnożenia.

a) 3 5 7 : 3

b) 8 9 5 0 : 5

c) 1 6 4 7 8 : 7

SPRAWDZENIE:

2. Marysia sprzedała 4251 kg truskawek w koszyczkach po 3 kg. Ile koszyczków sprzedała Marysia ?

3. Oskar zapłacił 860 zł za zdjęcia. Wywołanie jednego zdjęcia kosztuje 2 zł. Ile sztuk wywołał Oskar ?

3. Sprawdź czy działanie zostało dobrze wykonane, a następnie zaznacz TAK - jeśli wynik jest poprawny, NIE – jeśli wynik jest błędny, a obok wpisz prawidłową odpowiedź.

2568 : 8 = 322	TAK	NIE	
459 : 9 = 51	TAK	NIE	
9630 : 5 = 1926	TAK	NIE	
5232 : 4 = 1207	TAK	NIE	
4116 : 3 = 1378	TAK	NIE	





4. Połącz działania z odpowiednim wynikiem. Zapisz obliczenia.

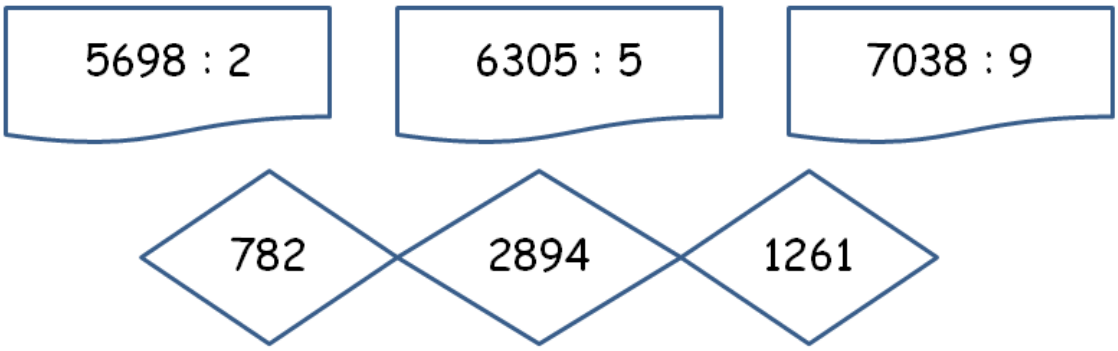







Czy podobała Ci się karta pracy? Zamaluj buźkę

Kl.4 [DZ.III - 1] DODAWANIE PISEMNE - ODPOWIEDZI

1. Oblicz sposobem pisemnym.

a)

	1	5	7
+		2	2
	1	7	9

b)

	3	6	8
+	2	1	0
	5	7	8

c)

5	1	2	9
+	2	5	0
5	3	7	9

d)

	5	7	6
+		3	8
	6	1	4

e)

	3	2	8
+	5	6	2
	8	9	0

f)

3	8	5	6
+	4	6	4
4	3	2	0

g)

	7	8	8
+	6	2	6
1	4	1	4

h)

3	5	9	9
+	8	0	7
4	4	0	6

i)

	5	6	4	2
+	9	9	9	9
1	5	6	4	1

j)

	3	8	8	9
		5	1	7
+			3	9
	4	4	4	5

k)

	9	2	3
	2	2	7
+	8	0	1
1	9	5	1

l)

	7	8	2	0
		6	6	8
			9	1
+			1	4
	8	5	9	3

2. Połącz działanie z jego wynikiem. Zapisz obliczenia.

326 + 145 | 5214 + 36 | 625 + 77 | 4125 + 1488

702 | 5250 | 5613 | 471

		3	2	6
	+	1	4	5
		4	7	1

	5	2	1	4
		+	3	6
	5	2	5	0

		6	2	5
		+	7	7
		7	0	2

	4	1	2	5
+	1	4	8	8
	5	6	1	3

zawładnij MATEMATYKĄ

3. Wykonaj działania sposobem pisemnym.

a) 128 + 31 b) 507 + 321 c) 1257 + 742 d) 698 + 42

e) 741 + 158 f) 7856 + 254 g) 301 + 894 h) 2540 + 623

i) 9881 + 3665 j) 4032 + 784 + 26 k) 461 + 958 + 300

l) 1256 + 6952 + 320 + 11

a)

	1	2	8
+		3	1
	1	5	9

b)

	5	0	7
+	3	2	1
	8	2	8

c)

1	2	5	7
+	7	4	2
1	9	9	9

d)

	6	9	8
+		4	2
	7	4	0

e)

	7	4	1
+	1	5	8
	8	9	9

f)

7	8	5	6
+	2	5	4
8	1	1	0

g)

	3	0	1
+	8	9	4
1	1	9	5

h)

2	5	4	0
+	6	2	3
3	1	6	3

i)

	9	8	8	1
+	3	6	6	5
1	3	5	4	6

j)

	4	0	3	2
		7	8	4
+			2	6
	4	8	4	2

k)

	4	6	1
	9	5	8
+	3	0	0
1	7	1	9

l)

	1	2	5	6
	6	9	5	2
		3	2	0
+			1	1
	6	5	3	9

4. Tata Karola miał w banku 7985 zł, na konto wpłynęła mu pensja z premią w wysokości 4522zł. Ile pieniędzy ma tata na koncie?

7985 + 4522 = 12507

Odp. Tata ma na koncie 12 507 zł.

	7	9	8	5
+	4	5	2	2
1	2	5	0	7

Czy podobała Ci się karta pracy? Zamaluj buźkę

Kl.4 [DZ.III - 2] ODEJMOWANIE PISEMNE - ODPOWIEDZI

1. Oblicz sposobem pisemnym.

a)

	3	6	9
-	2	4	2
	1	2	7

b)

4	9	9	9
-	9	0	8
4	0	9	1

c)

3	6	4	7	8
-	3	1	0	4
3	3	3	7	4

d)

		5	15
	8	~~6~~	~~5~~
-	4	5	9
	4	0	6

e)

2	4	8	6
-	4	3	6
2	0	5	0

f)

	5	13		
	~~6~~	~~3~~	7	7
-	4	4	2	6
	1	9	5	1

g)

	1	12	16
	~~2~~	~~3~~	~~6~~
	-	4	7
	1	8	9

h)

	6	14	14
	~~7~~	~~5~~	~~4~~
-	1	9	6
	5	5	8

i)

	4	15		
	~~5~~	~~5~~	4	8
-	1	8	4	0
	3	7	0	8

j)

		8	10	
	1	~~9~~	~~0~~	9
	-	3	5	7
	1	5	5	2

k)

	6	9	10
	~~7~~	~~0~~	~~0~~
-	4	6	1
	2	3	9

l)

	1	9	11	13
	~~2~~	~~0~~	~~2~~	~~3~~
-	1	9	7	5
			4	8

2. Połącz działania, które mają taki sam wynik.

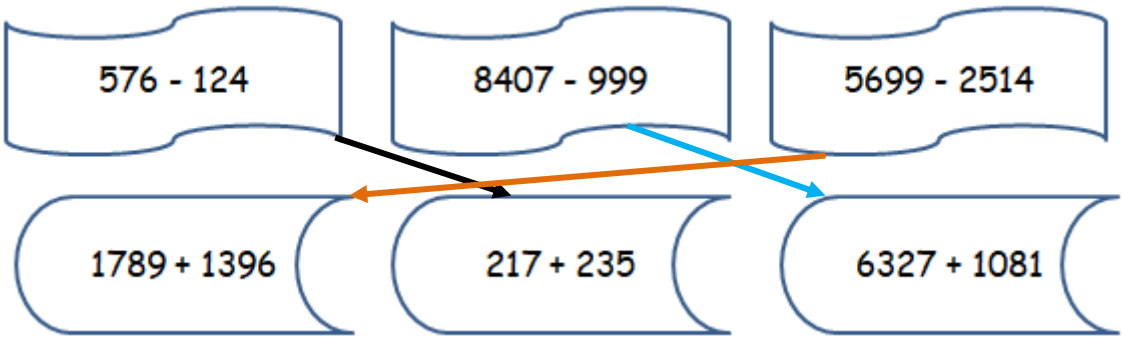

3. Wykonaj działania sposobem pisemnym.

a) 317 - 15	b) 789 - 459	c) 2671 - 460	d) 918 - 47
e) 649 - 185	f) 7466 - 728	g) 733 - 281	h) 4536 - 403
i) 9840 - 3675	j) 4032 – 784	k) 461 - 253	l) 3700 - 1952

a)

	3	1	7
	-	1	5
	3	0	2

b)

	7	8	9
-	4	5	9
	3	3	0

c)

	2	6	7	1
	-	4	6	0
	2	2	1	1

d)

	8	11	
	~~9~~	~~1~~	8
	-	4	7
	8	7	1

e)

	5	14	
	~~6~~	~~4~~	9
-	1	8	5
	4	6	4

f)

	6	14	5	16
	~~7~~	~~4~~	~~6~~	~~6~~
	-	7	2	8
	6	7	3	8

g)

	6	13	
	~~7~~	~~3~~	3
-	2	8	1
	4	5	2

h)

	4	5	3	6
	-	4	0	3
	4	1	3	3

i)

		7	13	10
	9	~~8~~	~~4~~	~~0~~
-	3	6	7	5
	6	1	6	5

j)

	3	9	12	12
	~~4~~	~~0~~	~~3~~	~~8~~
	-	7	8	4
	3	2	4	8

k)

		5	11
	4	~~0~~	~~1~~
-	2	5	3
	2	0	8

l)

	2	16	9	10
	~~3~~	~~7~~	~~0~~	~~0~~
-	1	9	5	2
	1	7	4	8

4. Wpisz w okienko odpowiednią liczbę. Zapisz obliczenia.

a) 1327 - [524] = 803

b) [2704] - 348 = 2356

c) 8681 – 1546 = [7135]

d) [9193] - 3578 = 5615

e) 633 – 140 = [493]

f) 5000 - [3288] = 1712

a)

	13		
~~1~~	~~3~~	2	7
-	8	0	3
	5	2	4

b)

2	3	5	6
+	3	4	8
2	7	0	4

c)

			7	11
	8	6	~~8~~	~~1~~
-	1	5	4	6
	7	1	3	5

d)

	5	6	1	5
+	3	5	7	8
	9	1	9	3

e)

	5	13	
	~~6~~	~~3~~	3
-	1	4	0
	4	9	3

f)

	4	9	9	10
	~~5~~	~~0~~	~~0~~	~~0~~
-	1	7	1	2
	3	2	8	8

5. Z Łodzi do Rzymu jest 1695 km, a do Pragi jest bliżej o 1144 km bliżej. Oblicz odległość między Łodzią a Pragą. Wynik sprawdź za pomocą dodawania.

1695 – 1144 = 551

	1	6	9	5
-	1	1	4	4
		5	5	1

	1	1	4	4
	+	5	5	1
	1	6	9	5

Odp.: Z Łodzi do Pragi jest 551 km.

6. Tadeusz Kościuszko urodził się w 1746 roku, a zmarł w 1817 roku. Ile lat żył Tadeusz Kościuszko ? Wynik sprawdź za pomocą dodawania.

1817 – 1746 = 71

		7	11	
	1	~~8~~	~~1~~	7
-	1	7	4	6
			7	1

	1	7	4	6
	+		7	1
	1	8	1	7

Odp.: Tadeusz Kościuszko żył 71 lat.

Czy podobała Ci się karta pracy? Zamaluj buźkę

Kl.4 [DZ.III - 3] MNOŻENIE PISEMNE PRZEZ LICZBĘ JEDNOCYFROWĄ - ODPOWIEDZI

1. Oblicz sposobem pisemnym.

a)

		1		
		3	6	2
	·			2
		7	2	4

b)

		1	2	
		1	2	7
	·			4
		5	0	8

c)

		4	4	
		7	8	8
	·			5
	3	9	4	0

d)

		5	6	
		4	5	7
	·			9
	4	1	1	3

e)

		7	3	
		3	9	4
	·			8
	3	1	5	2

f)

		5	4	
		2	8	8
	·			6
	1	7	2	8

g)

	4	5	4	
	1	5	7	6
·				7
1	1	0	3	2

h)

	4	2	4	
	3	5	2	6
·				8
2	8	2	0	8

i)

	2	1	2	
	5	5	2	6
·				4
2	2	1	0	4

j)

	3	2	0	0
·		3		
	9	6	0	0

k)

	4			
	9	7	0	0
·		6		
5	8	2	0	0

l)

	2	2		
	5	3	3	0
·			9	
4	7	9	7	0

2. Połącz działania z odpowiednim wynikiem.

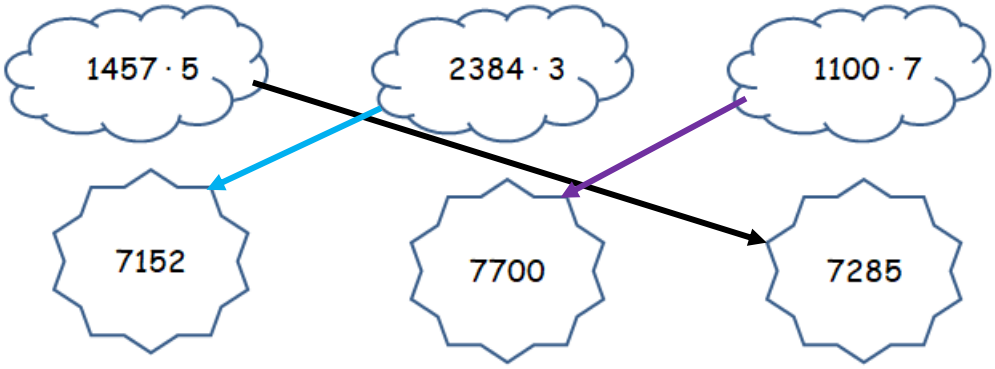

	2	2	3	
	1	4	5	7
			·	5
	7	2	8	5

	1	2	1	
	2	3	8	4
			·	3
	7	1	5	2

	1	1	0	0
	·	7		
	7	7	0	0

3. Wpisz w puste pole liczbę 3 razy większą.

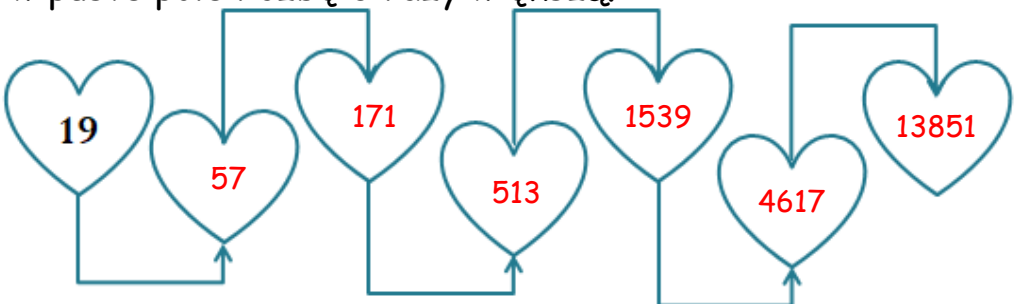

			2	
			1	9
			·	3
			5	7

			2	
			5	7
			·	3
		1	7	1

		2		
		1	7	1
			·	3
		5	1	3

		5	1	3
			·	3
	1	5	3	9

	1	1	2	
	1	5	3	9
			·	3
	4	6	1	7

	1		2	
	4	6	1	7
			·	3
1	3	8	5	1

4. Bingo matematyczne kosztuje 59 zł. Ile dyrektor musi przeznaczyć na zakup 7 takich zestawów ?

59 · 7 = 413 zł

Odp.: Dyrektor musi przeznaczyć 413 zł.

5. Daniel z rodzicami i bratem wyjechał do Torunia. W restauracji zamówili obiad, składający się z dwóch dań. Zupę, która kosztowała 13 zł oraz drugie danie – 60 zł. Ile zapłacili w restauracji ?

(13 + 60) · 4 = 73 · 4 = 292 zł

Odp.: Rodzina zapłaciła w restauracji 292 zł.

Czy podobała Ci się karta pracy? Zamaluj buźkę

Kl.4 [DZ.III - 4] MNOŻENIE PISEMNE PRZEZ LICZBĘ WIELOCYFROWĄ - ODPOWIEDZI

zawładnij MATEMATYKĄ

1. Oblicz sposobem pisemnym.

a)

			1		
			3	6	2
	·			1	2
			7	2	4
	+	3	6	2	
		4	3	4	4

b)

			1		2	
			2		2	
			2	5	1	7
		·			3	4
		1	0	0	6	8
	+	7	5	5	1	
		8	5	5	7	8

c)

			4			
			5	6	1	1
		·			7	1
			5	6	1	1
+	3	9	2	7	7	
	3	9	8	3	8	1

d)

				1		
				1	1	
				8	5	4
		·		2	0	3
			2	5	6	2
+	1	7	0	8		
	1	7	3	3	6	2

e)

				1	3	2	
					1	1	
				3	7	4	
				7	4	9	6
			·		4	2	8
			5	9	9	6	8
		1	4	9	9	2	
+	2	9	9	8	4		
	3	2	0	8	2	8	8

f)

			3	3	3		
			3	4	4	1	
			3	4	4	1	
			1	7	8	8	2
		·			4	5	5
			8	9	4	1	0
		8	9	4	1	0	
+	7	1	5	2	8		
	8	1	3	6	3	1	0

2. Wykonaj działania. Wynik wpisz w ramkę.

2024

26 razy więcej → 52 624

			1	2	
		2	0	2	4
			·	2	6
	1	2	1	4	4
+	4	0	4	8	
	5	2	6	2	4

7 razy więcej → 14 168

		1	2	
	2	0	2	4
			·	7
1	4	1	6	8

140 razy więcej → 283 360

				1		
		2	0	2	4	
			·	1	4	0
		8	0	9	6	0
+	2	0	2	4		
	2	8	3	3	6	0

S

3. Pomóż uczniom w obliczeniach.

5894 · 44

3256 · 27

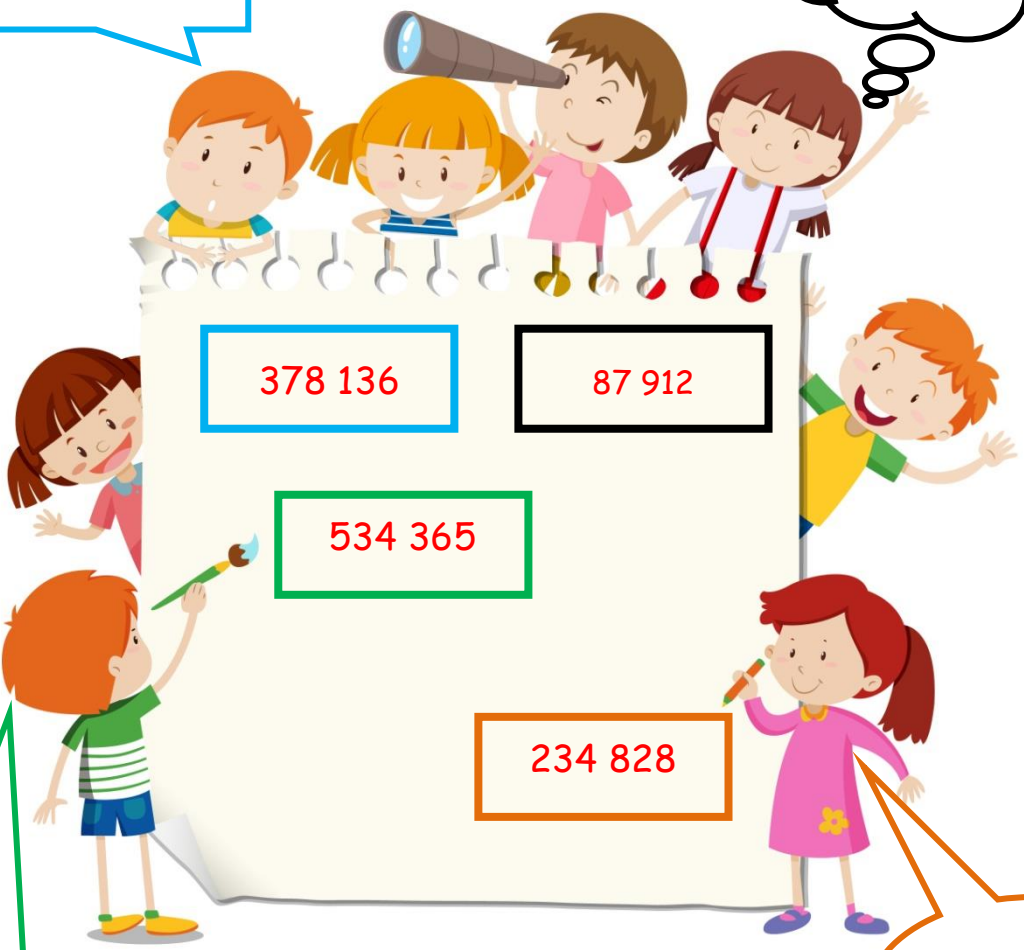

378 136

87 912

534 365

234 828

8221 · 65

1779 · 132

			2	3	1	
			2	3	1	
			8	5	9	4
				·	4	4
		3	4	3	7	6
+	3	4	3	7	6	
	3	7	8	1	3	6

				1	1	
			1	3	4	
			3	2	5	6
				·	2	7
		2	2	7	9	2
	+	6	5	1	2	
		8	7	9	1	2

			1	1		
			1	1		
			8	2	2	1
				·	6	5
		4	1	1	0	5
+	4	9	3	2	6	
	5	3	4	3	6	5

			2	2	2	
			1	1	1	
			1	7	7	9
			·	1	3	2
			3	5	5	8
		5	3	3	7	
+	1	7	7	9		
	2	3	4	8	2	8

4. Bilet z Wrocławia do Dubaju kosztuje 1969 zł. Ile musi zebrać organizator wycieczki, jeśli chętnych jest 12 osób ? Organizatora koszt nie obejmuje.

1969 · 12 = 23 628 zł

Odp.: Organizator wycieczki musi zebrać 23 628 zł.

5. Firma ,,ASUS" chce zakupić 35 laptopów po 2545 zł. Ile pieniędzy potrzebuje na ten cel ?

2545 · 35 = 89 075 zł

Odp.: Na ten cel potrzebuje 89 075zł.

6. Ernest z rodzicami chce wyjechać od piątku do niedzieli do Zakopanego. Nocleg dla jednej osoby kosztuje 150 zł. Dodatkowo opłacili śniadanie, które kosztuje 75 zł za osobę. Ile zapłacą za pobyt? Zapisz działanie za pomocą jednego wyrażenia.

(150+75) · 2 · 3 = 225 · 2 · 3 = 1350 zł

Odp.: Rodzina zapłaci za pobyt 1350 zł.

Czy podobała Ci się karta pracy? Zamaluj buźkę

Kl.4 [DZ.III - 5] DZIELENIE PISEMNE PRZEZ LICZBĘ JEDNOCYFORWĄ

1. Oblicz sposobem pisemnym i sprawdź za pomocą mnożenia.

a)

	1	1	9		
	3	5	7	:	3
-	3				
	=	5			
	-	3			
		2	7		
	-	2	7		
		r.	0		

b)

	1	7	9	0		
	8	9	5	0	:	5
-	5					
	3	9				
-	3	5				
		4	5			
	-	4	5			
			=	0		
			-	0		
			r.	0		

c)

		2	3	5	4		
	1	6	4	7	8	:	7
-	1	4					
		2	4				
	-	2	1				
			3	7			
		-	3	5			
				2	8		
			-	2	8		
				r.	0		

SPRAWDZENIE:

				2	
			1	1	9
		·			3
			3	5	7

		3	4		
		1	7	9	0
	·			5	
		8	9	5	0

		2	3	2	
		2	3	5	4
	·				7
	1	6	4	7	8

2. Marysia sprzedała 4251 kg truskawek w koszyczkach po 3 kg. Ile koszyczków sprzedała Marysia ?

4251 : 3 = 1417

Odp.: Marysia sprzedała 1417 koszyczków.

	1	4	1	7		
	4	2	5	1	:	3
-	3					
	1	2				
-	1	2				
		=	5			
		-	3			
			2	1		
		-	2	1		
			r.	0		

3. Oskar zapłacił 860 zł za zdjęcia. Wywołanie jednego zdjęcia kosztuje 2 zł. Ile sztuk wywołał Oskar ?

860 : 2 = 430

Odp.: Oskar wywołał 430 sztuk zdjęć.

		4	3	0		
		8	6	0	:	2
	-	8				
		=	6			
		-	6			
			=	0		
			-	0		
			r.	0		

3. Sprawdź czy działanie zostało dobrze wykonane, a następnie zaznacz TAK - jeśli wynik jest poprawny, NIE – jeśli wynik jest błędny, a obok wpisz prawidłową odpowiedź.

2568 : 8 = 322	TAK	NIE	321
459 : 9 = 51	TAK	NIE	
9630 : 5 = 1926	TAK	NIE	
5232 : 4 = 1207	TAK	NIE	1308
4116 : 3 = 1378	TAK	NIE	1372

		3	2	1		
	2	5	6	8	:	8
-	2	4				
		1	6			
	-	1	6			
			=	8		
			-	8		
			r.	0		

			5	1		
		4	5	9	:	9
	-	4	5			
			=	9		
			-	9		
			r.	0		

	1	9	2	6		
	9	6	3	0	:	5
-	5					
	4	6				
-	4	5				
		1	3			
	-	1	0			
			3	0		
		-	3	0		
			r.	0		

	1	3	0	8		
	5	2	3	2	:	4
-	4					
	1	2				
-	1	2				
		=	3			
		-	0			
			3	2		
		-	3	2		
			r.	0		

	1	3	7	2		
	4	1	1	6	:	3
-	3					
	1	1				
	-	9				
		2	1			
	-	2	1			
			=	6		
			-	6		
			r.	0		

4. Połącz działania z odpowiednim wynikiem. Zapisz obliczenia.

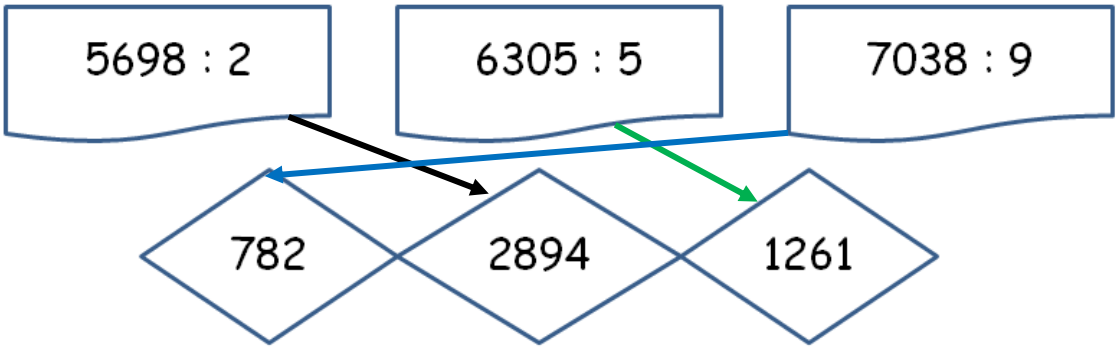

	2	8	4	9		
	5	6	9	8	:	2
-	4					
	1	6				
-	1	6				
		=	9			
		-	8			
			1	8		
		-	1	8		
			r.	0		

	1	2	6	1		
	6	3	0	5	:	5
-	5					
	1	3				
-	1	0				
		3	0			
	-	3	0			
			=	5		
			-	5		
			r.	0		

		7	8	2		
	7	0	3	8	:	9
-	6	3				
		7	3			
	-	7	2			
			1	8		
		-	1	8		
			r.	0		

Czy podobała Ci się karta pracy? Zamaluj buźkę

Bibliografia

[1] https://pl.freepik.com/darmowe-wektory/rama-z-szczesliwym-dzieciakiem_5183401.htm#query=dziecko&position=0&from_view=search&track=sph

Karty pracy dla klasy 4 dział III: „Działania pisemne." zawiera 5 kart pracy, które pozwalają utrwalić wiadomości i odkryć potencjał matematyczny.

W tym dziale znajdziesz następujące tematy:

1. **Dodawanie pisemne.**
2. **Odejmowanie pisemne.**
3. **Mnożenie pisemne przez liczbę jednocyfrową.**
4. **Mnożenie pisemne przez liczbę wielocyfrową.**
5. **Dzielenie pisemne przez liczbę jednocyfrową.**

Materiały przeznaczone są nie tylko dla uczniów, ale również dla nauczycieli, którzy chcieli-by urozmaicić lekcje matematyki.